小4　第3回確認テスト

1　次の計算をしなさい。（2点×9）

(1)　$532+253$　　(2)　$89+468$　　(3)　$598-263$

(1)　785　　(2)　557　　(3)　335

(4)　$503-69$　　(5)　$1.5+3.8$　　(6)　$\frac{3}{11}+\frac{7}{11}$

(4)　434　　(5)　5．3　　(6)　$\frac{10}{11}$

(7)　$\frac{11}{15}+\frac{4}{15}$　　(8)　$\frac{27}{35}-\frac{9}{35}$　　(9)　$1-\frac{3}{8}$

(7)　1　　(8)　$\frac{18}{35}$　　(9)　$\frac{5}{8}$

2　次の計算をし、余りが出るものは余りも出しなさい。（2点×8）

(1)　593×6　　(2)　723×54　　(3)　251×329

(1)　3558　　(2)　39042　　(3)　82579

(4)　$84\div7$　　(5)　$65\div9$　　(6)　$592\div4$

(4)　12　　(5)　7あまり2　　(6)　148

氏名(　模範解答　)

(7)　704÷5　　(8)　200÷4

(7)　140 あまり 4　　(8)　50

3　以下の問題に答えなさい。（式２点，答え２点，計４点×４）

（１）えりさんは、120円のジュースと、90円のパンを買って、500円出しました。おつりはいくらでしょう。

式(　500－（120＋90）＝290　)

答え(　２９０円　)

（２）1 本 60 円のえんぴつがあります。1 人に 2 本ずつ、5 人の友達にプレゼントしようと思います。全部で何本いるでしょう。

式(　2×5＝10　)

答え(　１０本　)

（３）ゆかさんの財布の中には 10000 円札が 1 枚、5000 円札が 3 枚、500 円玉が 1 個、10 円玉が 5 個あります。ゆかさんは全部でいくら持っているでしょう。

式(　10000＋5000×3＋500＋10×5＝25550　)

答え(　２５５５０円　)

（４）キャンディーが 65 個あります。これを 1 人に 9 個ずつあげると、何人にあげることができて、何個あまりますか。

式(　６５÷９＝７…２　)

答え(　７人にあげられて２個あまる　)

Heart&Hard 北進ゼミナール

4　以下の問題に答えなさい。（4点×5）

（1）半径が 2 ㎝のボールを、下の図のように 1 列にぴったりと箱の中にしまうには、箱の横の長さを何㎝にすればよいですか。　（　12ｃｍ　）

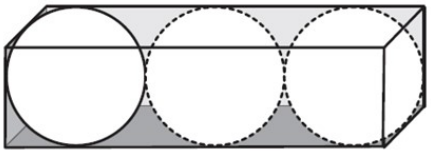

（2）次の㋐～㋒の角度を求めなさい。

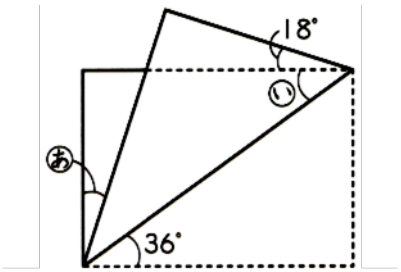

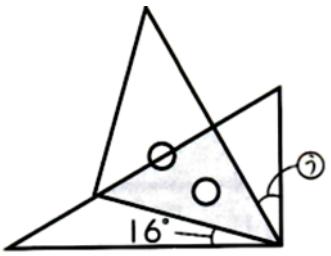

㋐（　18°　）　㋒（　29°　）

㋑（　36°　）

（3）直径が 10 ㎝の 2 つの円を図のようにあわせたとき、アイの長さはいくつになりますか。

（　15cm　）

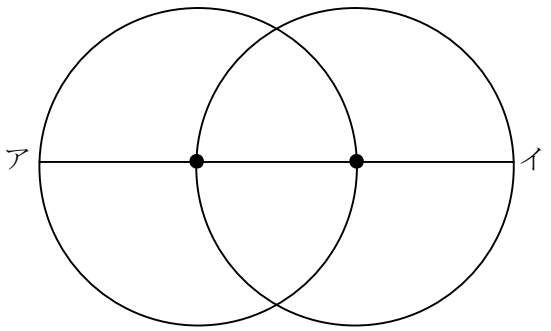

5　次の図で、直線と㋑、直線㋒と㋓は平行である。㋕から㋖の角度は何度か求めなさい。（2点×5）

（1）

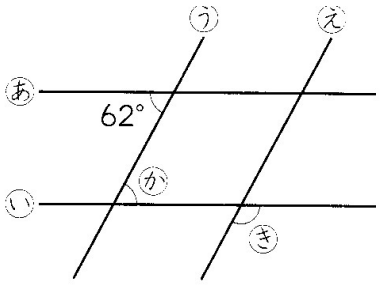

(1)㋕　62°　㋖　118°

（２）

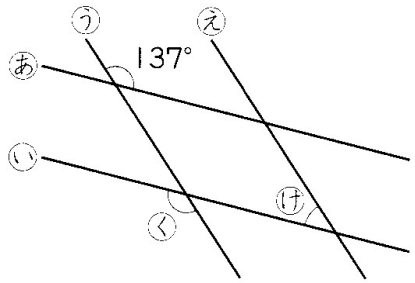

(2)く　137°　け　43°

（３）

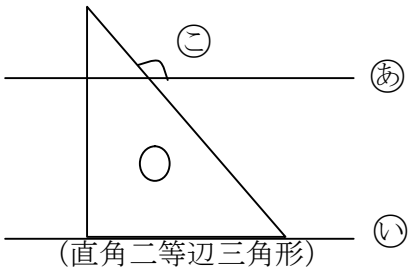

(3)こ　135°

6　次のア～オの四角形の名前とていぎを答えなさい。（２点×１０）

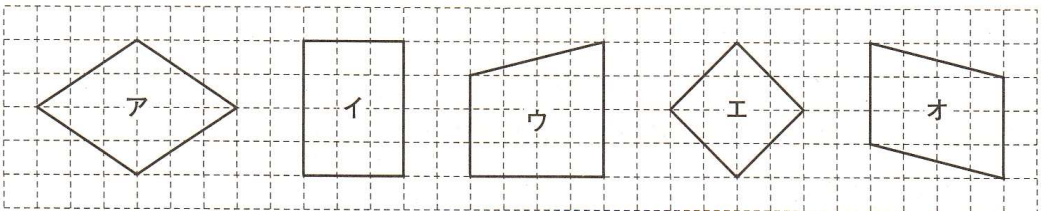

ア名前　ひし形　ていぎ　4つの辺が等しい四角形

イ名前　長方形　ていぎ　4つの角が等しい四角形

ウ名前　台形　ていぎ　1組の対辺が平行な四角形

エ名前　正方形　ていぎ　4つの辺と角が等しい四角形

オ名前　平行四辺形　ていぎ　2組の対辺が平行な四角形

1	2	3	4	5	6	合計
計算①	計算②	文章題	図形	垂直と平行	四角形	
/18	/16	/16	/20	/10	/20	/100

Heart&Hard 北進ゼミナール